IES MEDITERRÁNEO
Estepona

RECUPERACIÓN TRIMESTRAL DE LA MATERIA PENDIENTE DE EDUCACIÓN PLÁSTICA VISUAL Y AUDIOVISUAL

2º ESO BILINGÜE/FRANCÉS

CURSO 2019-20

1ª EVALUACIÓN

Enviar a paulinopalma@institutomediterraneo.es

1) Trazar una paralela a la recta r y que pase por el punto A.

2) Trazar una perpendicular a la recta r y que pase por le punto A.

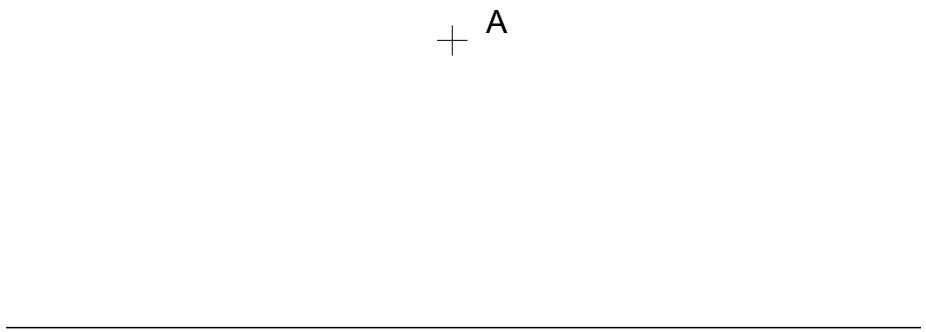

3) Trazar la mediatriz del segmento dado AB.



4) Trazar trazar una perpendicular a un segmento por uno de sus extremos.



Tema 8: Trazados básicos.	LÁMINA Nº 1	RECUPERACIÓN DE PENDIENTES 2º EPVA BIL.

Nombre y apellidos	GRUPO:	NOTA:

1) Construcción de un ángulo igual a otro dado A.

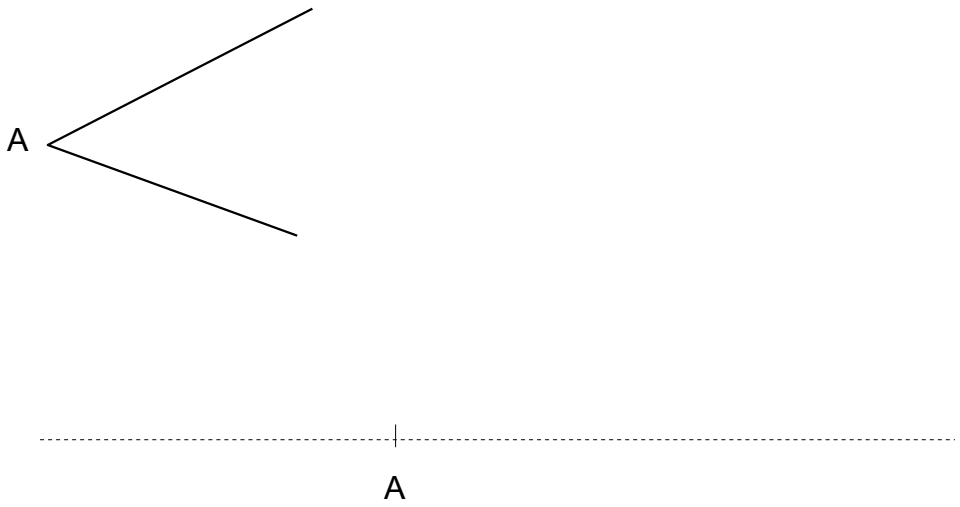

2) Hallar la suma de los segmentos dados sobre la línea punteada.

3) Dibujar la bisectriz del ángulo dado A.

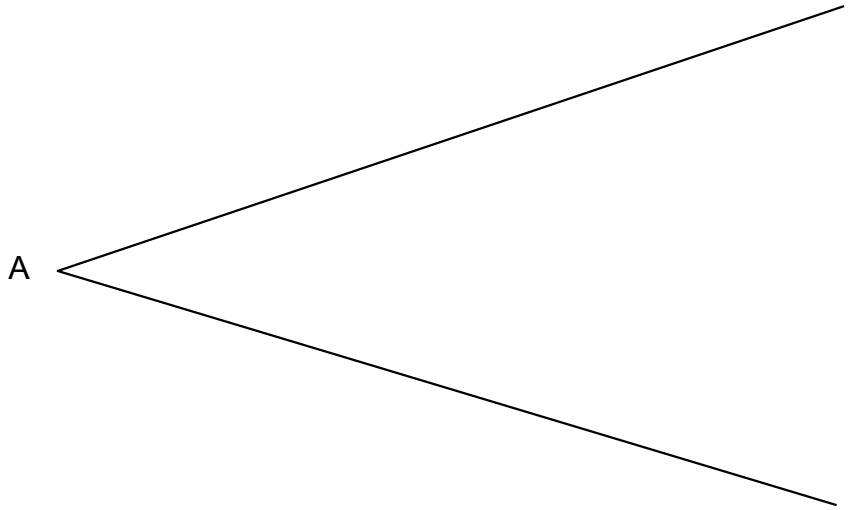

4) Trazar la bisectriz de un ángulo con el vértice fuera del dibujo.

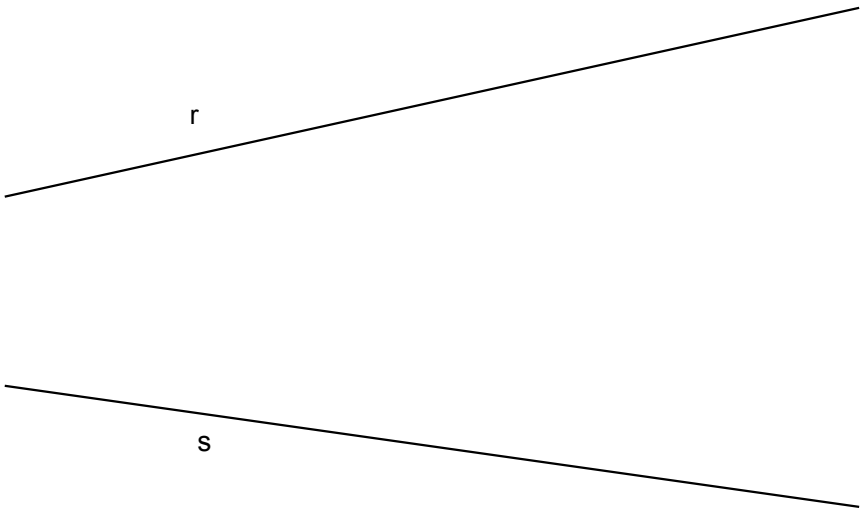

Tema 8: Trazados básicos.	LÁMINA Nº 2	RECUPERACIÓN DE PENDIENTES 2º EPVA BIL.

Nombre y apellidos	GRUPO:	NOTA:

1) Construcción de un triángulo equilátero conocido el lado.

a

2) Construcción de un cuadrado conocido el lado.

a

3) Construcción de un pentágono conocido el lado.

a

4) Construcción de un hexágono conocido el lado.

a

Tema 8: Construcción de polígonos regulares conocido el lado.	LÁMINA Nº 3	RECUPERACIÓN DE PENDIENTES 2º EPVA BIL.

Nombre y apellidos	GRUPO:	NOTA:

1) Construcción de un heptágono conocido el lado..

A ├──────────┤ B

2) Construcción de un octógono conocido el lado.

A ├──────────┤ B

Tema 8: Construcción de polígonos regulares conocido el lado.	LÁMINA Nº 4	RECUPERACIÓN DE PENDIENTES 2º EPVA BIL.

Nombre y apellidos	GRUPO:	NOTA:

1) Aplicar el método general para la construcción de un eneágono conocido el lado.

A ├──────┤ B

2) Aplicar el método general para la construcción de un endecágono conocido el lado.

A ├──────┤ B

Tema 7: Trazados básicos.	LÁMINA Nº 5	RECUPERACIÓN DE PENDIENTES 2º EPVA BIL.
Nombre y apellidos	GRUPO:	NOTA:

1) Trazar una circunferencia de 35mm de radio y dibujar el triángulo equilátero inscrito..	2) Trazar una circunferencia de 35 mm de radio y dibujar el cuadrado inscrito.
3) dibujar un circunferencia de 35 mm de radio y construir el pentágono inscrito.	4) Trazar una circunferencia de 35 mm de radio y dibujar el hexágono inscrito.

Tema 8: Construcción de polígonos regulares inscritos.	LÁMINA Nº 6	RECUPERACIÓN DE PENDIENTES 2º EPVA BIL.	
Nombre y apellidos		GRUPO:	NOTA:

1) Dibujar dos circunferencias de 35 mm de radio (una sobre la otra).
En la primera dibujar el heptágono inscrito y en la segunda dibujar una estrella De 7 vértices.

2) Dibujar dos circunferencias de 35 mm de radio (una sobre la otra).
En la primera dibujar el octógono inscrito y en la segunda dibujar una estrella De 8 vértices.

Tema 8: Construcción de polígonos regulares inscritos.	LÁMINA Nº 7	RECUPERACIÓN DE PENDIENTES 2º EPVA BIL.

Nombre y apellidos	GRUPO:	NOTA:

1) Trazar una circunferencia de 70 mm de radio y dibujar un polígono estrellado de 12 vértices. Repasar con rotulador y decorar y colorear el resultado.

Tema 8: Construcción de polígonos estrellados	LÁMINA Nº 8	RECUPERACIÓN DE PENDIENTES 2º EPVA BIL.	
Nombre y apellidos		GRUPO:	NOTA: